Enigme mathématique ***

Dans une forêt vivent des tyrannosaures et des stégosaures.



On voit 9 têtes et 30 pattes de dinosaures cachés derrière des arbres.



QUESTION : Combien de tyrannosaures et de stégosaures se cachent dans la forêt ? Trouve plusieurs possibilités.

AIDES – tyrannosaures et stégosaures à découper si besoin